中学理科　生物のからだのつくり

単細胞生物と多細胞生物.2

年　組　番

名前　解答

解答

問1　図を見て、以下の設問に答えよ。

(A)

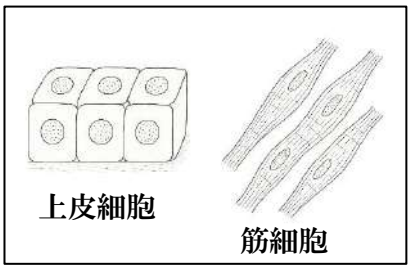

(B)

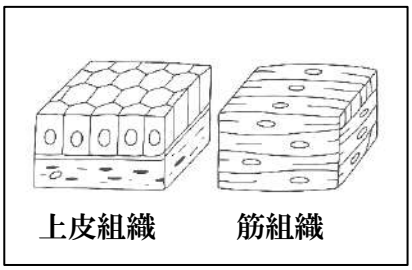

(C)

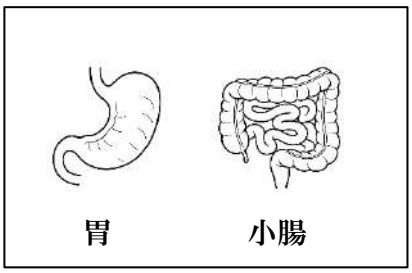

(1) (B)の上皮組織は、(A)の上皮細胞が集まってできたものである。(B)の筋組織は、(A)の筋細胞が集まってできたものである。このように、形やはたらきが同じ細胞が集まってできたものを何というか。

(組織)

(2) (C)はいくつかの種類の(B)が集まってできたものであり、特定の働きをするものである。(C)を何というか。

(器官)

(3) いくつかの(C)が集まってできたものを何というか。 (個体)

(4) (B)や(C)を持つのは、単細胞生物と多細胞生物のどちらか。 (多細胞生物)

問2　図の生物について、以下の設問に答えよ。

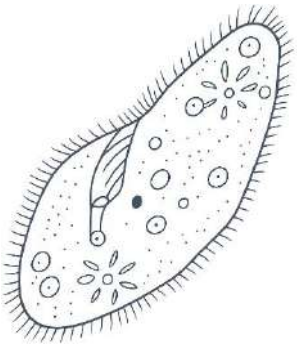

※図の生物は、ゾウリムシである。

(1) 図の生物は、単細胞生物か、多細胞生物か。 (単細胞生物)

(2) 図の生物は動くことができるか。 (動くことができる)

問3　次の文章が正しければ○を、誤っていれば×を記入せよ。

(1) 葉緑体を持つのは、単細胞生物のみである。 (×)

(2) ミジンコ、ゾウリムシ、人、メダカのうち単細胞生物はゾウリムシである。 (○)

(3) 単細胞生物は1つの細胞で生活のすべてを行っている。 (○)

※このプリントは右の【ポテスクプリント】にて無料でダウンロードできます。

Potaschool Print ポテスクプリント